A

Otocz kółkiem co trzecią literę i odczytaj hasło.

N O R A K O G S H Ó I C R F M Z S H E P G R U D Ó B F Ż L O E A J N K R A S N D I L O S T L K J E U P B T R E B L Z K M U G R C Z I Z T H S I M I L F Ę C D R Ł O A N U C W E H J T U M A N Ż A K G I Ó M T W H I N T S I R N E D C B E J Ę T H D M N Z O F I L C E K O Ł O W E L U Z A

Opracowała: Barbara Klawitter-Brzezińska

B

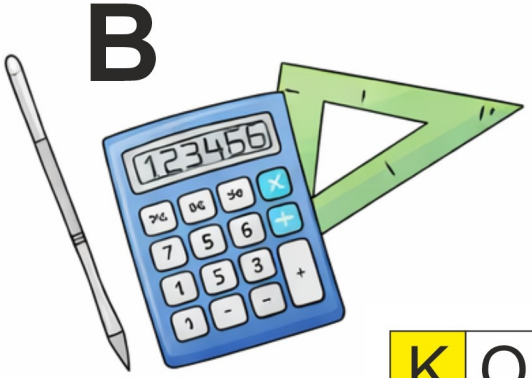



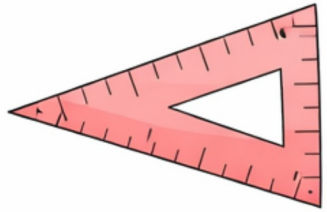



K	O	R	T	Y	B	L	O	R	T
T	W	H	I	J	S	G	Ó	F	O
O	A	F	N	U	L	I	H	J	B
D	P	X	T	C	W	Ą	K	G	C
G	R	A	M	F	O	T	S	A	E
C	L	E	U	R	D	R	A	M	A
K	I	J	L	M	A	W	H	R	K
B	R	D	H	Ł	S	P	K	U	E
Y	A	S	F	O	Y	A	F	I	P
C	E	R	K	T	R	T	B	K	E

T	←	↙	↘	↙	←	↓
T						
E	←	↑	↗	↖	↙	↙
E						
K	↘	↓	↙	↘	→	↗
K						
C	↑	↗	↖	→	↗	↘
C						

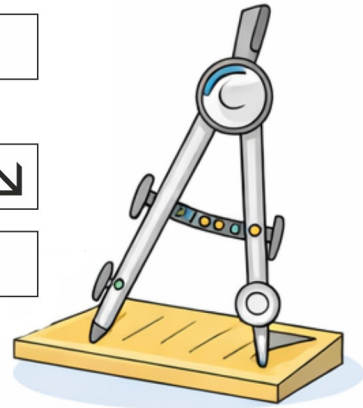

W diagramie ukryte są cztery nazwy związane z geometrią.
Odszukaj je, poruszając się zgodnie z kierunkiem strzałek.
Pierwsze litery haseł znajdują się w oznaczonych kratkach.

Opracowała: Barbara Klawitter-Brzezińska

Oblicz wyniki działań. Następnie wpisz w puste kratki poniżej litery odpowiadające otrzymanym wynikom. Utworzą one hasło.

Z → *12 + 78 =*

O → *IX*

Ł → *640 : 64 =*

L → *25 – 5 • 2 – 2 =*

T → *Iloraz liczb 333 i 111*

N → *(54 + 18) : 9 =*

Ż → *(55 + 25) : 5 =*

A → ☐ *: 4 = 8 r 5*

B → *Dzielna 114, dzielnik 2, iloraz* ☐

J → *32 :* ☐ *= 6 r 2*

W → *84 – 34 + 6 =*

Ą → *640 : 10 =*

I → *Różnica liczb 52 i 17*

C → *3 + 7 • 2 =*

K → *Iloczyn 12 i 5*

E → *Suma liczb 42 i 10*

P → *45 : 5 • 3=*

S → *Różnica liczb 188 i 100*

Ę → *16 – 16 : 4 =*

G → *Dzielna 100, dzielnik* ☐*, iloraz 2*

D → *Suma liczb 27 i 3*

H → *Różnica liczb 88 i 50*

Y → *35 • 2 =*

17	90	10	9	56	35	52	60

3	9

8	35	52

16	37	57	37

17	90	10	9	56	35	52	60

8	35	52

60	35	5	37	8	60	37

8	35	52

60	64	27	35	52

88	35	12

8	35	50	30	70

56

88	3	37	56	37	17	38

35

50	13	35	8	35	37	8	60	37	17	38

Opracowanie: Barbara Klawitter-Brzezińska